名前＿＿＿＿＿＿＿＿＿＿＿＿　番号＿＿＿＿＿＿

／40

第 32 期プロテスト筆記①　３０分

■次の牌姿の点数を答えなさい　（各 1 点）

※全て東 1局、子は西家とする。ドラはないものとする。

※ルールは日本プロ麻雀連盟競技ルール(Aルール)とする

※親のツモ、ロンアガリ、子のツモ、ロンアガリの点数をそれぞれ申告通りに記入すること

1） 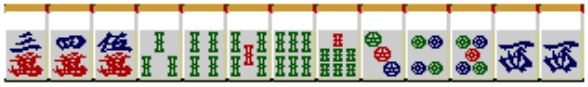 　アガリ牌 　リーチあり

2） 　アガリ牌

3）  　アガリ牌

4） 　アガリ牌

5） 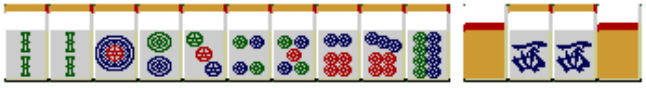 　アガリ牌 　リーチあり

6） 　アガリ牌

7） 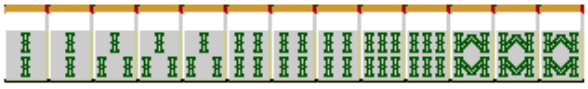 　アガリ牌

8） 　アガリ牌

9） 　アガリ牌

10） 　アガリ牌

ツモの場合は［中］加槓による嶺上開花とする

	親ツモ	親ロン	子ツモ	子ロン
1	オール		,	
2	オール		,	
3	オール		,	
4	オール		,	
5	オール		,	
6	オール		,	
7	オール		,	
8	オール		,	
9	オール		,	
10	オール		,	

名前＿＿＿＿＿＿＿＿＿＿＿＿　番号＿＿＿＿＿

／30

第 32 期プロテスト筆記②　３０分

■次の牌姿の時、待ちとなる牌を全て答えよ　(各 2 点)

※算用数字で記入すること（例：　２　５　８　）

※答えは数の小さいものから順に記入すること

※手牌で 4 枚使っている牌は待ちに含まない

1） 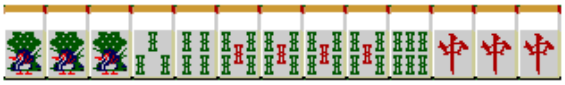

2） 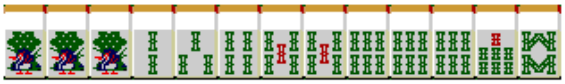

3） 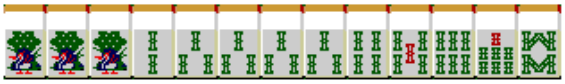

4） 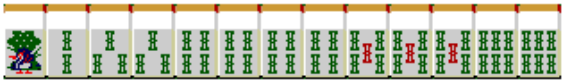

5） 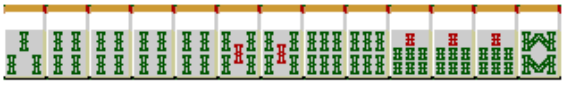

6） 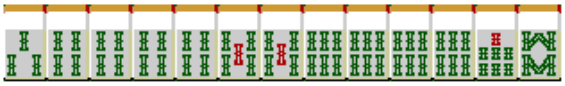

1	
2	
3	
4	
5	
6	

■以下の 1 シャンテン形に各ソーズを引き [東]を切った場合の待ちを答えよ　※テンパイしない場合はノーテンと書け

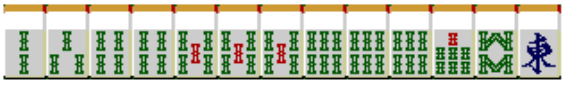

名前＿＿＿＿＿＿＿＿＿＿　　番号＿＿＿＿＿

／30

第 32 期プロテスト筆記③－１　　３０分

■下記の点数状況でオーラスを迎えた時、以下の条件問題に答えよ

南４局　１本場　親：A　供託：1000 点　※対局ルールは日本プロ麻雀連盟競技ルール(A ルール)とする

A　東家　39200

B　南家　20800

C　西家　26000

D　北家　33000

１）B、C が順位点をプラスにするためのアガリ条件(点数)をそれぞれ答えよ　(各 1 点)

※実際に存在する必要最小条件のアガリ点で解答すること(80 符以上は出現しないものとする)

※解答欄には積み棒を含めない点数を記入すること　(例：1000，2000)

B の条件	ロンアガリ	ツモアガリ　　，
C の条件	ロンアガリ	ツモアガリ　　，

２）C、D がトップになるためのアガリ条件(点数)をそれぞれ答えよ　(各 2 点)

※実際に存在する必要最小条件のアガリ点で解答すること(80 符以上は出現しないものとする)

※解答欄には積み棒を含めない点数を記入すること　(例：1000，2000)

※同点トップとなる場合も可とする

C の条件	A からのロン	B,D からのロン	ツモアガリ　　，
D の条件	A からのロン	B,C からのロン	ツモアガリ　　，

■この局の結果を記録した整理牌譜(別紙)を参照し、以下の問題に答えよ

３）A、C、D が最初に 1 シャンテンとなったのはそれぞれ何巡目か答えよ　(各 1 点)

※鳴きによって同巡内あるいはそれ以降のツモ巡に抜けが生じた場合もこれを 1 巡と数える

A.　　巡目	C.　　巡目	D.　　巡目

４）9 巡目にツモ[三]、打[南]とした時点での B の手牌を書け　(2 点)

※以下の解答例を参考に、マンズ、ソーズ、ピンズの順に表記すること

(解答例：　五五六七八７８②②②⑥⑦⑦　)

B の手牌：

５）記録のように、今局は 12 巡目に B のツモアガリとなり、この結果 B のトップで半荘が終了した

全体の手牌･捨牌状況から B の 10･11 巡目のツモと捨牌を推考し、その最終形(アガリ牌を含まないテンパイ形)とアガリ牌をそれぞれ答えよ　(両方正解で 5 点)

※A、B はリーチをかけていないものとする

※テンパイ者はアガリ牌の見逃しを行わないものとする

※以下の解答例を参考に、マンズ、ソーズ、ピンズの順に表記すること

アガリ牌

(解答例：最終形　五五六七八６７８②②②⑥⑦　アガリ牌　⑧)

最終形：	アガリ牌：

６）上記のように終局した場合、順位点を含めた全員の最終得点(ポイント)をそれぞれ答えよ　(各 1 点)

※得点がマイナスの場合は△で記入すること　(例：△5.5)

A.	B.	C.	D.

名前＿＿＿＿＿＿＿＿＿＿＿＿　　番号＿＿＿＿＿

第 32 期プロテスト筆記③－2

■整理牌譜　(南 4 局 1 本場　供託：1000 点)

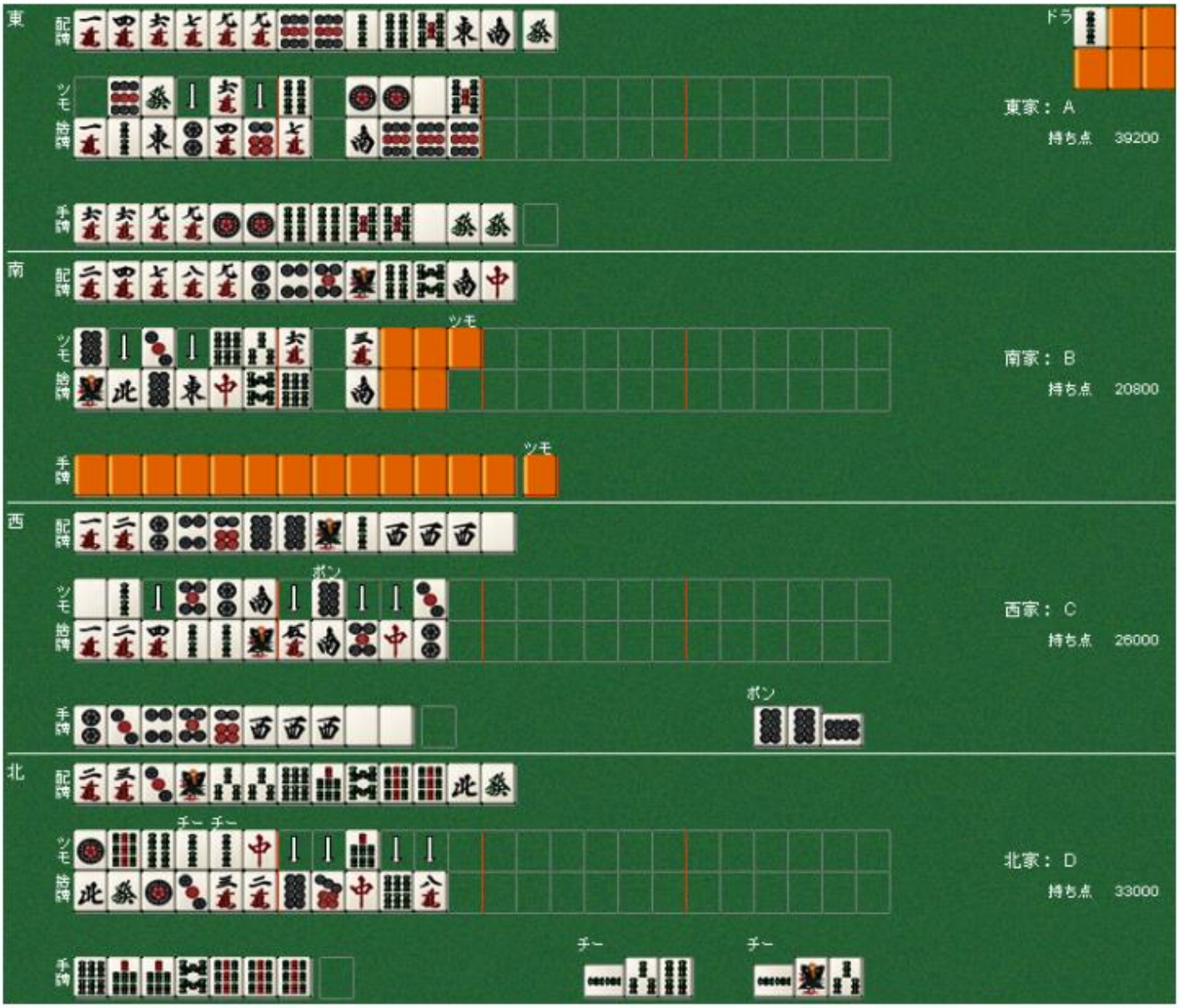

	親ツモ	親ロン	子ツモ	子ロン
1	4000 オール	11600	2000，3900	5200
2	3200 オール	2000	1300，2600	1300
3	2600 オール	5800	2000，4000	7700
4	1600 オール	2400	800，1600	1600
5	2000 オール	3400	2000，3900	4500
6	1600 オール	3900	800，1600	2600
7	16000 オール	36000	8000，16000	24000
8	2600 オール	6800	1300，2600	4500
9	3200 オール	8700	800，1600	2900
10	1600 オール	2400	800，1600	1600

1	23467
2	45679
3	1245689
4	12567
5	7
6	235789

	45689		13459
	347		258
	2569		147
	1245689		13456
	134679		

Bの条件	ロンアガリ　8000	ツモアガリ　2000，3900
Cの条件	ロンアガリ　3200	ツモアガリ　700，1300

Cの条件	Aからのロン　6400	B,Dからのロン　12000	ツモアガリ　2000，3900
Dの条件	Aからのロン　2300	B,Cからのロン　5200	ツモアガリ　800，1600

A.　7巡目	C.　4巡目	D.　2巡目

Bの手牌：　二三四六七八九３４②③④⑤

最終形：　二三四五六七八九３３②③④	アガリ牌：　一

A.　+7.1	B.　+12.1	C.　△15.1	D.　△4.1